موقع مراجعة اعدادي
COLLEGE.MOURAJAA.COM

تطبيق ① ص 211:

أ.

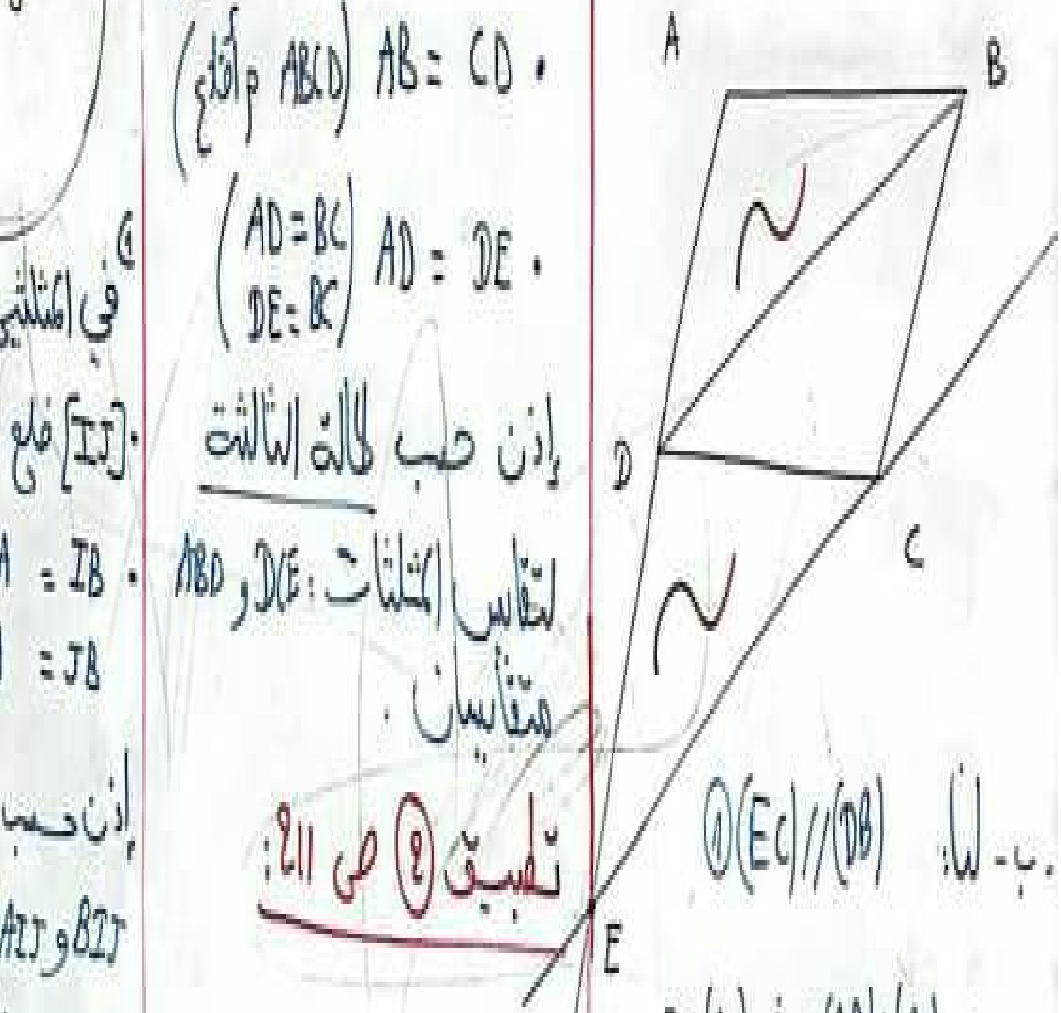

ب- لنبيّن: (Ec)//(DB) ①

و (BC)//(AD) بحيث Ec(AD)

إذن: (DE)//(BC) ②

وعليه: DBCE شبه منحرف

ج- في المثلثين DCE و ABD لدينا:

- DB = EC (لأنهما قطرا المستطيل DBCE)
- AB = CD (لأنهما ضلعا المستطيل ABCD)
- AD = DE ($\begin{matrix} AD=BC \\ DE=BC \end{matrix}$)

إذن حسب الحالة الثالثة لتقايس المثلثات: DCE و ABD متقايسان.

تطبيق ④ ص 211:

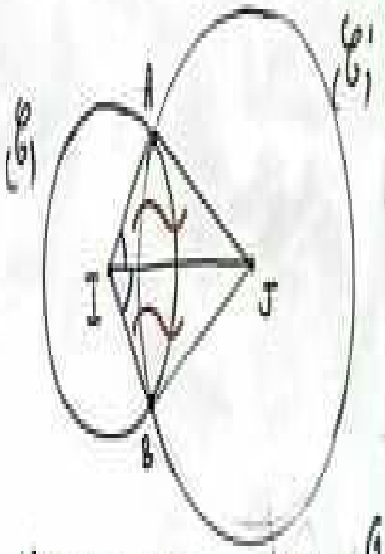

ج- في المثلثين AIJ و BIJ لدينا:

- [IJ] ضلع مشترك.
- IA = IB (شعاعان لنفس الدائرة ج)
- JA = JB (" " " ج)

إذن حسب الحالة الثالثة لتقايس المثلثات AIJ و BIJ متقايسان

د- حسب ما سبق فإن المثلثين المتقايسين $\begin{matrix} A & I & J \\ B & I & J \end{matrix}$ فإن: $\widehat{AIJ} = \widehat{BIJ}$ وهذه الزاويتان متكاملتان

[IJ] منصف الزاوية $\widehat{AIB}$.

موقع مراجعة اعدادي
COLLEGE.MOURAJAA.COM
COLLEGE.MOURAJAA.COM

موقع مراجعة اعدادي
COLLEGE.MOURAJAA.COM

انجاز تمرين (13) ص 222:

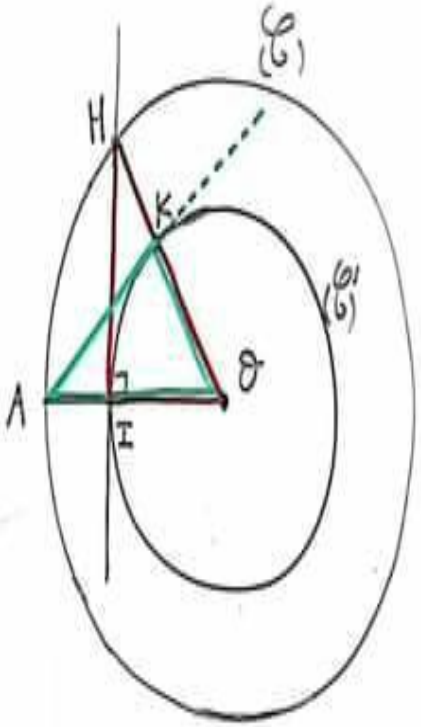

1) في المثلثين AKO و HIO لدينا:
- $OH = OA$: (شعاعان لنفس الدائرة (ج))
- $OI = OK$: (" " " (ج'))
- $H\hat{O}I = K\hat{O}A$: زاوية مشتركة

إذن حسب الحالة الثانية لتقايس المثلثات
AKO و HIO متقايسان.

2) حسب نظائر رؤوس المثلثين المتقايسين: $\begin{array}{|c|c|c|}\hline A & K & O \\ \hline H & I & O \\ \hline \end{array}$ فان:

$\hat{HIO} = \hat{AKO} = 90°$ (معطى) ومنه:

$(OK) \perp (AK)$ في K

($[OK]$ شعاع الدائرة (ج'))

إذن: (AK) هو مماس للدائرة (ج') في K.

Tangente

موقع مراجعة اعدادي
COLLEGE.MOURAJAA.COM
COLLEGE.MOURAJAA.COM

مرحبا بكم على منصة مراجعة

موقع مراجعة
mourajaa.com

موقع مراجعة سنوات الاعدادي

COLLEGE.MOURAJAA.COM

أخبار التعليم في تونس

NEWS.MOURAJAA.COM